（B－3） 正の数･負の数で量を表す

ねらい	反対の性質をもつ量、基準を決めたときの量の表し方を考えることができる。

◆ **海面**から富士山の頂上まで高さを＋3776mとすると、
海面から伊豆･小笠原海溝の深さは＿＿－9780m＿＿である。

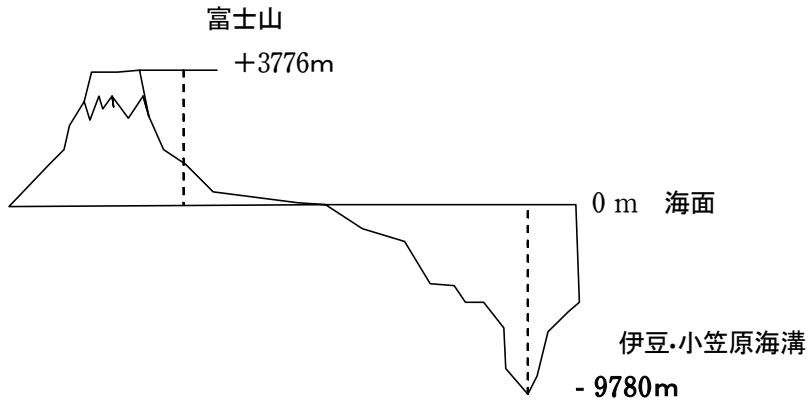

【問題】それぞれの図に合うように、下線部に値をかきなさい。

〇海面から599mの山の高さを＋599mとすると、
海面から700mの海底の深さは＿＿－700　m＿＿と表される。

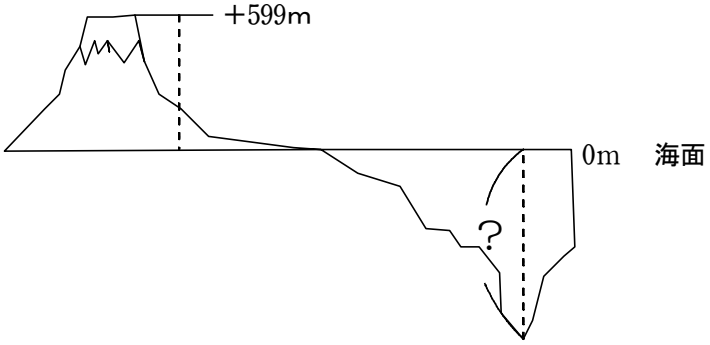

◆ **ある地点**から２km**東**の地点を＋２km**で表すとき
ある地点から３km**西**の地点は、＿＿－3　km＿＿と表される。

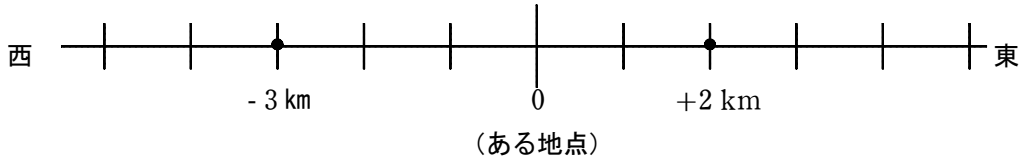

【問題】それぞれの図に合うように、下線部に値をかきなさい。

〇ある地点から５km**東**の地点を＋５kmで表すとき
ある地点から７km**西**の地点は、＿＿＿－7　km＿＿と表される。

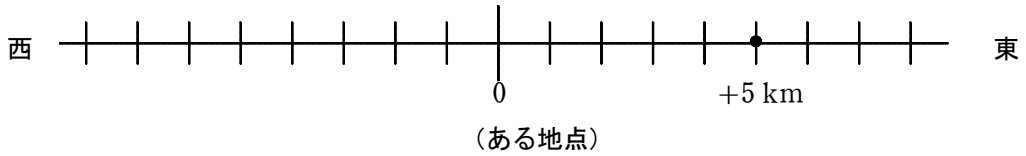

年　　組　　番　名前